1 やじるし

なまえ

【問題】子どもがいる場所からやじるしの向きにしたがってマスを進んでいくと何にたどりつくでしょう。下の３つうち正しいものに〇をつけましょう。



kyozaisupport.com

2 やじるし

なまえ

【問題】子どもがいる場所からやじるしの向きにしたがってマスを進んでいくと何にたどりつくでしょう。下の３つうち正しいものに〇をつけましょう。







kyozaisupport.com

3 やじるし

なまえ

【問題】子どもがいる場所からやじるしの向きにしたがってマスを進んでいくと何にたどりつくでしょう。下の３つうち正しいものに〇をつけましょう。



kyozaisupport.com

4 やじるし

なまえ

【問題】子どもがいる場所からやじるしの向きにしたがってマスを進んでいくと何にたどりつくでしょう。下の３つうち正しいものに〇をつけましょう。

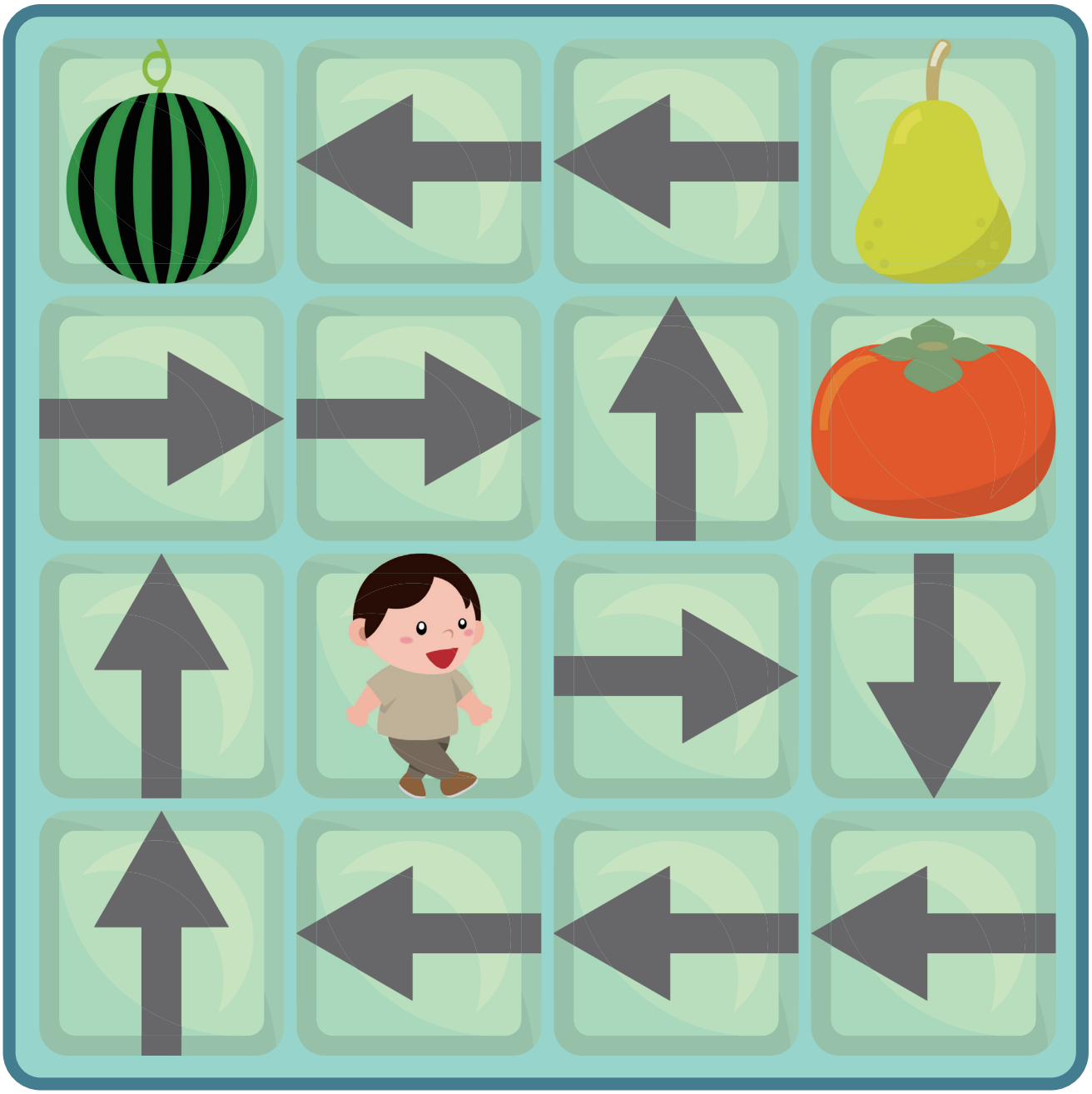



kyozaisupport.com

5 やじるし

なまえ

【問題】子どもがいる場所からやじるしの向きにしたがってマスを進んでいくと何にたどりつくでしょう。下の３つうち正しいものに〇をつけましょう。

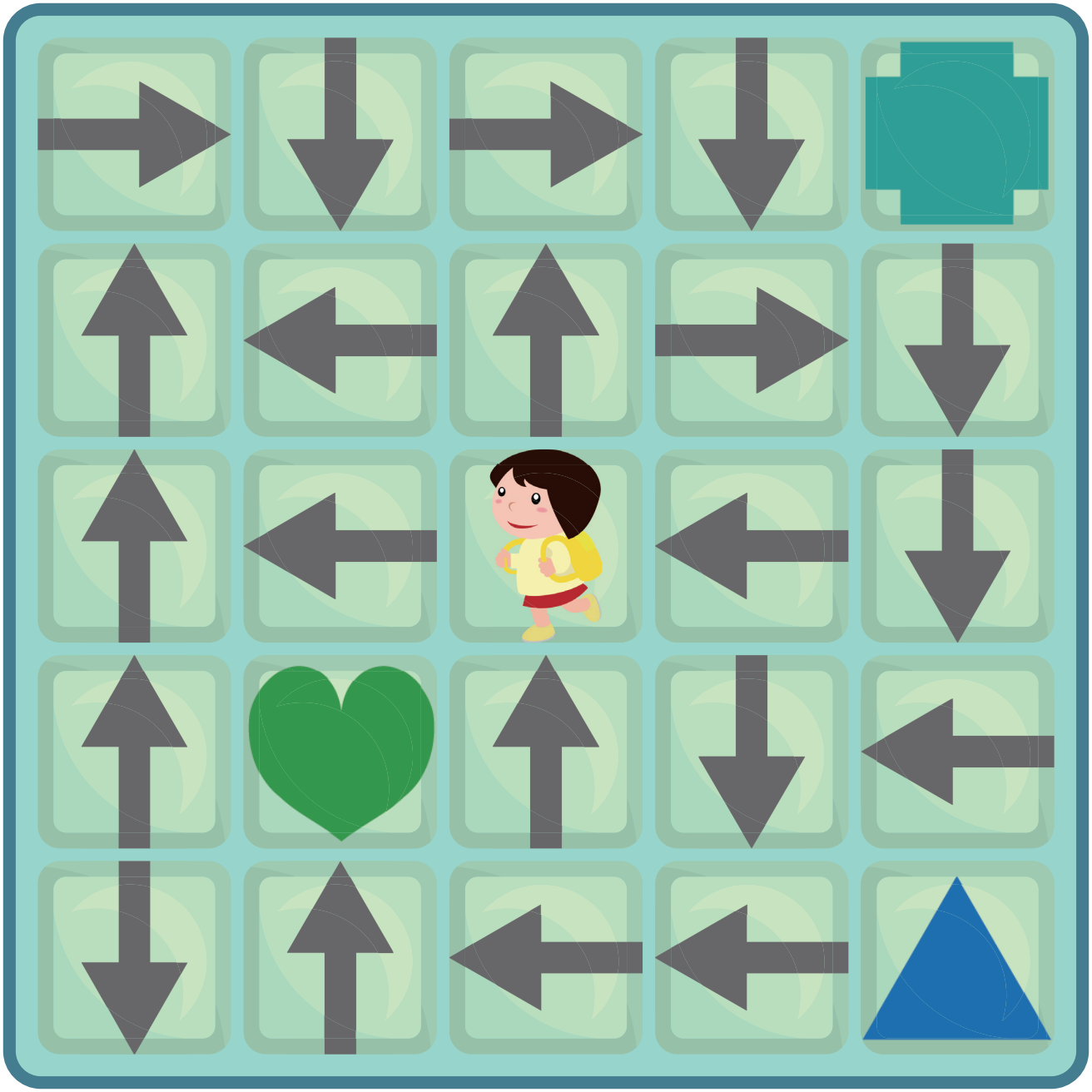

kyozaisupport.com

6 やじるし

なまえ

【問題】子どもがいる場所からやじるしの向きにしたがってマスを進んでいくと何にたどりつくでしょう。下の３つうち正しいものに〇をつけましょう。

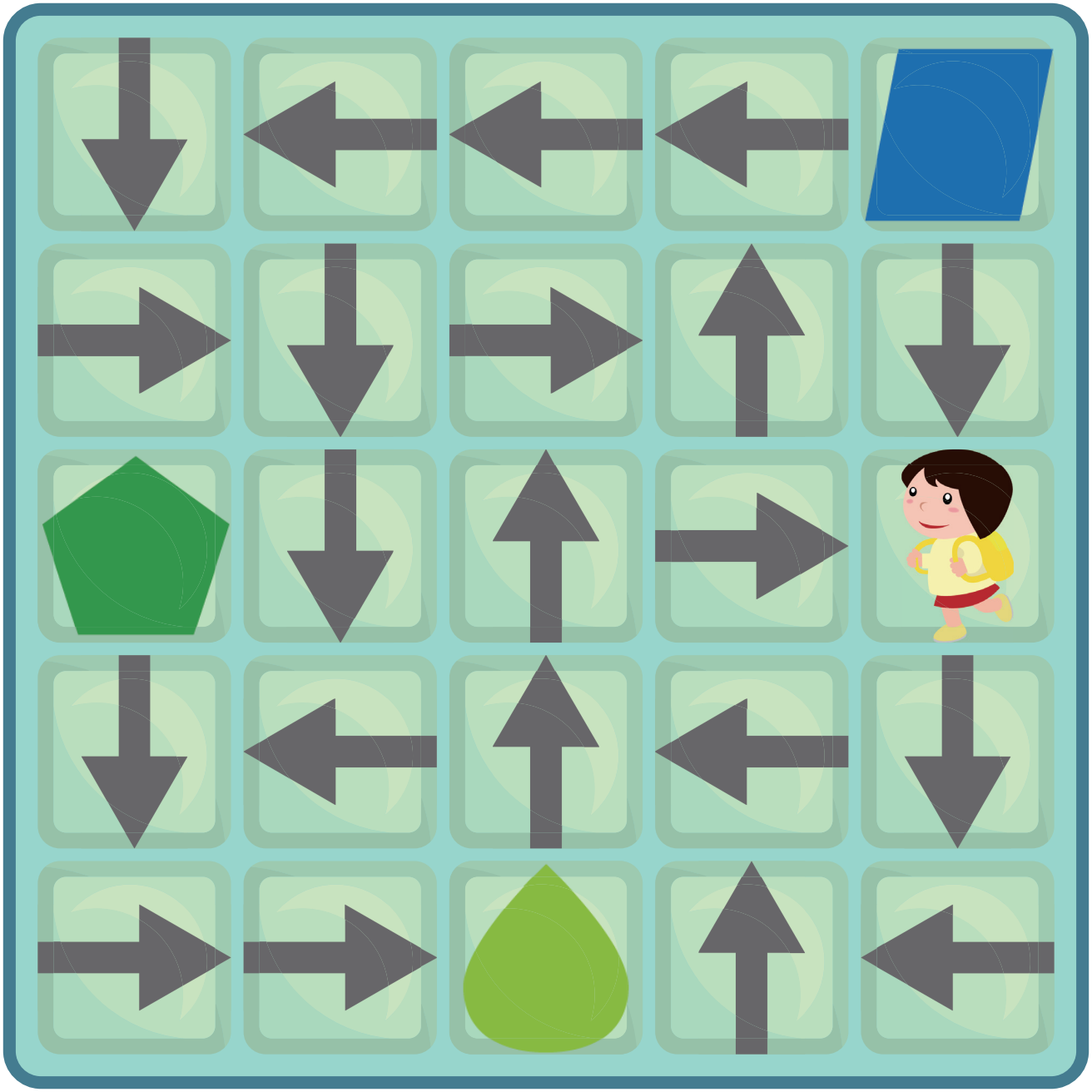

kyozaisupport.com

7 やじるし

なまえ

【問題】子どもがいる場所からやじるしの向きにしたがってマスを進んでいくと何にたどりつくでしょう。下の３つうち正しいものに〇をつけましょう。

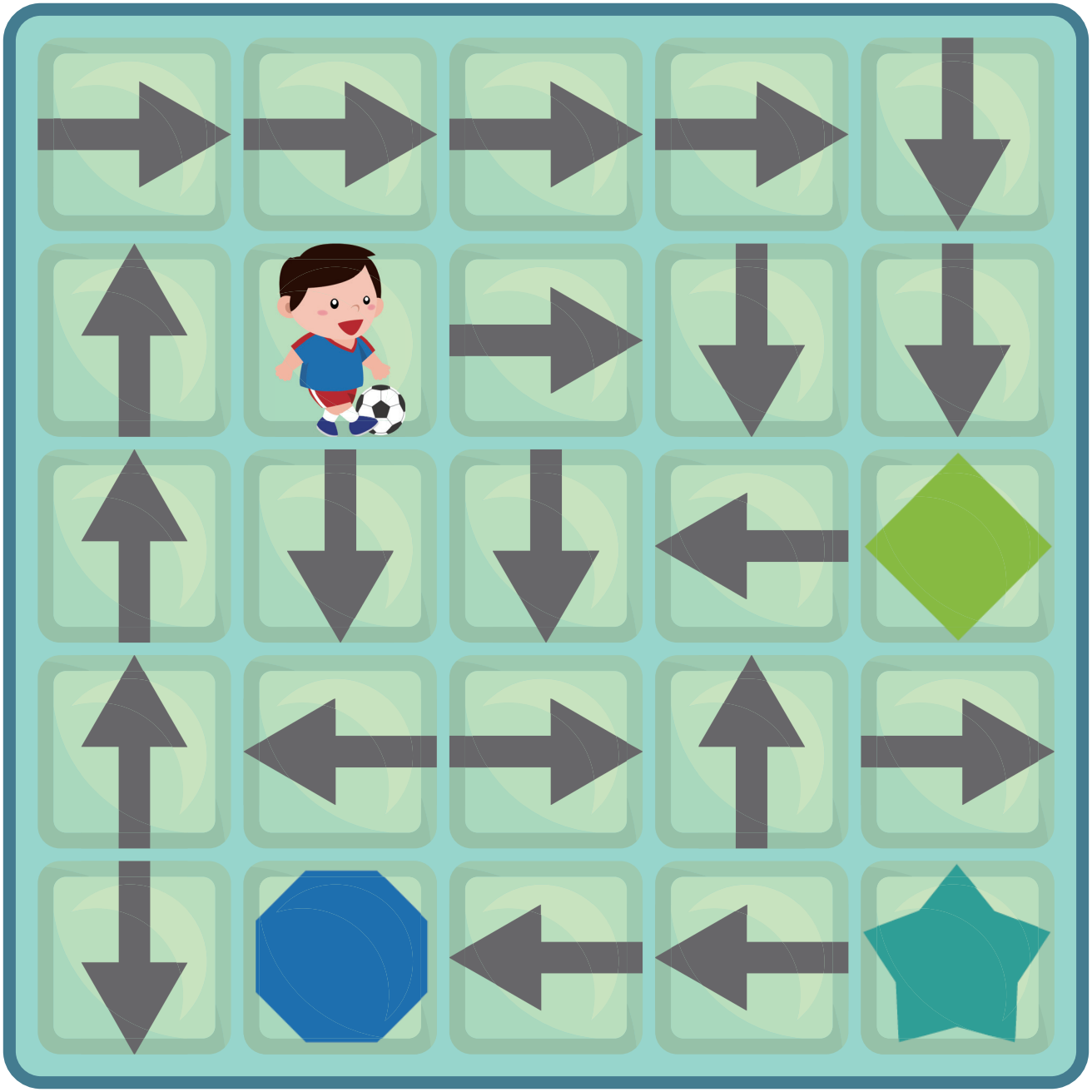

kyozaisupport.com

8 やじるし

なまえ

【問題】子どもがいる場所からやじるしの向きにしたがってマスを進んでいくと何にたどりつくでしょう。下の３つうち正しいものに〇をつけましょう。



A　B　C

kyozaisupport.com

9 やじるし

なまえ

【問題】子どもがいる場所からやじるしの向きにしたがってマスを進んでいくと何にたどりつくでしょう。下の３つうち正しいものに〇をつけましょう。

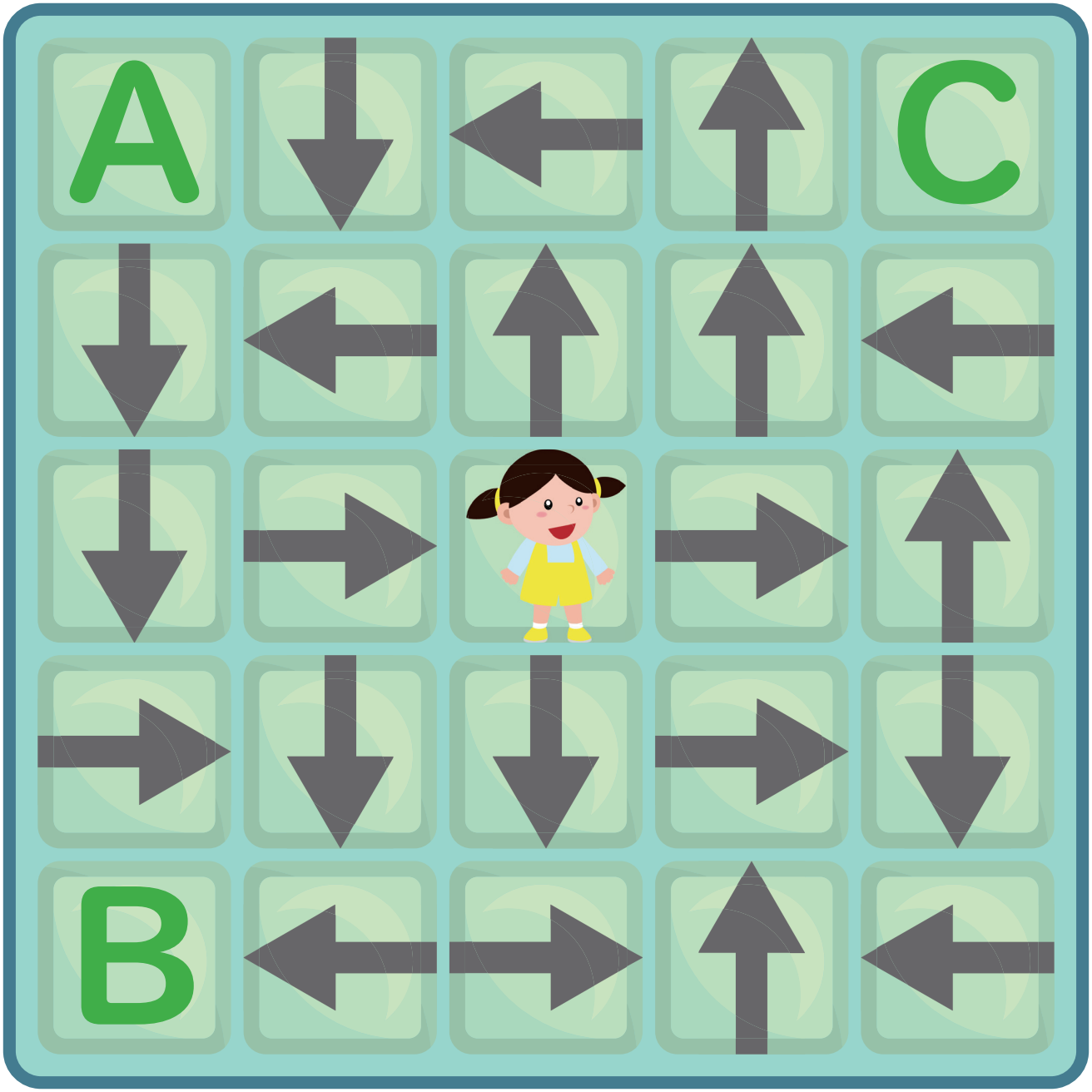

A　B　C

kyozaisupport.com