わりざんプリント（7でわる3）　年　組　　名まえ

絵を見て、かけざんのしきをとこたえをかきましょう。

① カスタネットが49こあります。1つの箱に7こずつ入れたら，箱は何箱いりますか。

□ ÷ □ ＝ □

7×□＝49　　答え

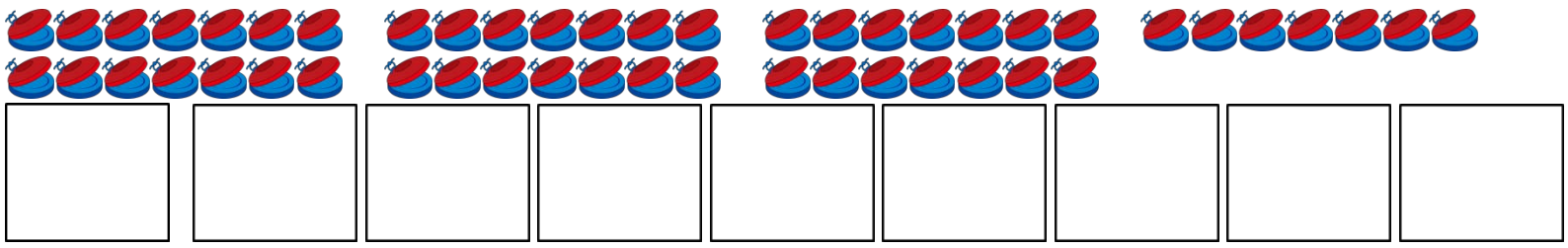

② すずが42こあります。1つの箱に7こずつ入れたら，箱は何箱いりますか。

□ ÷ □ ＝ □

7×□＝42　　答え

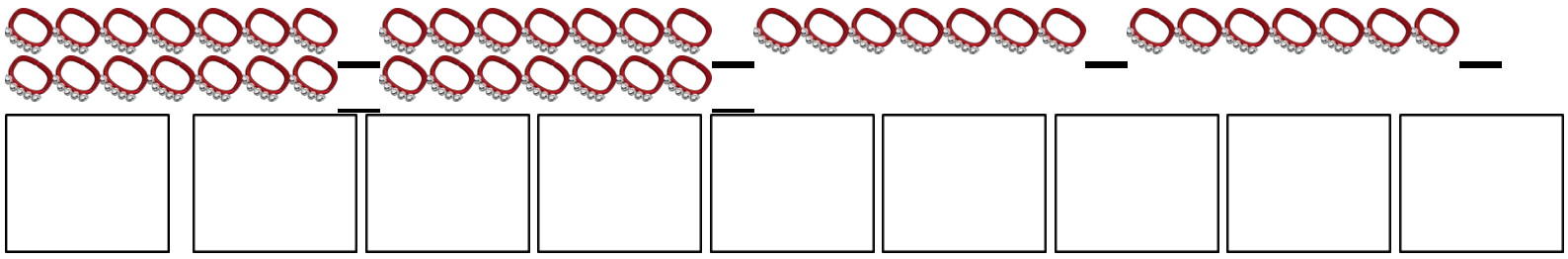

③ パンが35こあります。1つのふくろに7こずつ入れたら，ふくろは何ふくろいりますか。

□ ÷ □ ＝ □
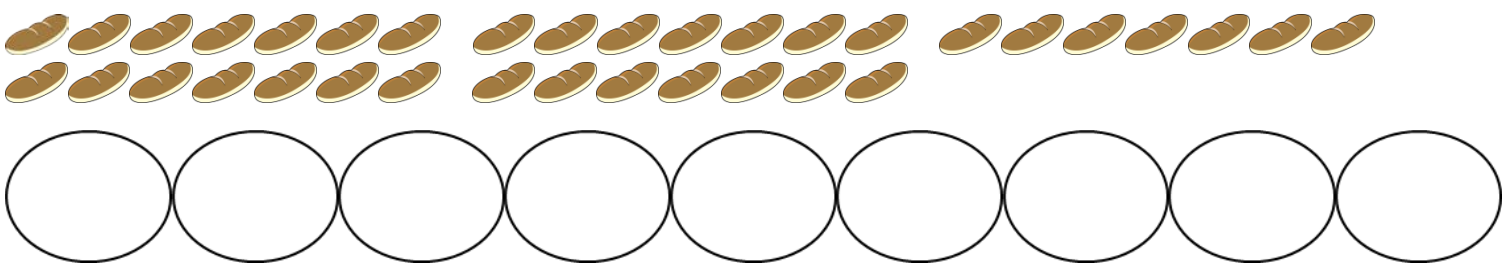
7×□＝35　　答え